AGENZIA DELLE ENTRATE
510 UNITÀ PROFILO PROFESSIONALE FUNZIONARIO, PER ATTIVITÀ AMMINISTRATIVO-TRIBUTARIA
QUESTIONARIO - 52

001. Quale dei seguenti numeri eliminerebbe? 238 - 168 - 63 - 99 - 14.
A) 99. **B)** 63. **C)** 168.

002. Edda acquista 71 buste per lettera. Per strada ne perde 26 ed è preoccupata poiché gliene servono proprio 71 ma, per fortuna, a casa, ne trova 39 in un cassetto. Quante buste le avanzano alla fine?
A) 12.
B) 13.
C) 11.

003. Il quintuplo di quale numero, aumentato di 17 è uguale a 157?
A) 29. **B)** 28. **C)** 27.

004. Il prezzo di una padella antiaderente è due sesti del prezzo di una padella in alluminio. Se le comprassi entrambe spenderei Euro 48. Qual è il prezzo dell'articolo meno caro?
A) Euro 15.
B) Euro 12.
C) Euro 30.

005. Quale simbolo deve essere inserito al posto della Y?

(2x2)+(5x4)+(9x8) Y (2x9)+(3x9)+(6x2)

A) <.
B) =.
C) >.

006. Temperature registrate alle ore 10:00 del 31 gennaio 2019 nelle principali città italiane: Roma 10°, Asti -7°, Bari 16°, Pisa -10°. Supponendo che quanto riportato sia vero, allora è vero affermare che:
A) A Bari ci sono 8° più di Roma.
B) Pisa registra 26° meno di Bari.
C) Roma registra 4° più di Asti.

007. Quali numeri devono essere inseriti al posto dei puntini? 94 - 107 - … - 133 - … - 159 - 172.
A) 121 e 146.
B) 120 e 146.
C) 120 e 147.

008. Quali numeri completano la serie? 74 - 77 - 70 - 73 - 66 - 69 - … - … - 58 - 61.
A) 62 e 65. **B)** 62 e 66. **C)** 63 e 65.

009. ! uguale +; / uguale x; " uguale - e ? uguale : Svolgere la seguente espressione: (9 / 8) ! (8 / 7) " (2 / 3) ! (7 / 4) " (3 / 2) =.
A) 144.
B) 157.
C) 123.

010. Con quali di questi numeri deve continuare la serie? 45 - 47 - 42 - 54 - 39 - 61 - 36 - 68 - … - ….
A) 33 e 76. **B)** 32 e 75. **C)** 33 e 75.

Leggere il brano e rispondere alle seguenti 6 domande. (011 - 016)
Gabriella ha deciso di acquistare un tavolo tra quattro possibili: Simbios, Saskia, Marisol, Pidema. I tavoli sono realizzati in: rovere, acciaio, acero, noce non necessariamente in questo ordine; i prezzi dei tavoli sono euro: 720, 750, 790 e 810 non necessariamente in questo ordine. Le misure dei tavoli sono: 60x120, 110x70, 110x110, 60x110 cm sempre non necessariamente in questo ordine.
È inoltre noto che: - il tavolo che costa 720 euro è in rovere;- Saskia misura 110x70 cm ed è in noce; - il prezzo di Pidema è 790 euro e misura meno di 110x110 cm; - Marisol è in acero, costa 810 euro e misura 60x120 cm.

011. Quale tavolo sceglierebbe Gabriella se decidesse per quello che, in base al prezzo è terzo in ordine decrescente?
A) Quello che misura 60x120 cm. **B)** Pidema. **C)** Quello in noce.

012. Quale tavolo ha dimensioni 110x110 cm?
A) Quello in noce. **B)** Quello in acciaio. **C)** Quello in rovere.

013. Quale tavolo sceglierebbe Gabriella se decidesse per quello che, in base alle dimensioni è terzo in ordine crescente?
A) Saskia. **B)** Quello in acero. **C)** Quello che costa 810 euro.

014. Sulla base delle informazioni fornite, indicare l'affermazione corretta.
A) Saskia costa 720 euro. **B)** Pidema è in noce. **C)** Simbios è in rovere.

015. Quale tavolo costa 750 euro?
A) Simbios. **B)** Quello in noce. **C)** Quello che misura 110x110 cm.

016. Quale tavolo ha dimensioni maggiori?
A) Simbios. **B)** Quello in acciaio. **C)** Pidema.

017. Individuare la coppia che completa correttamente la proporzione. Versilia : Toscana = (X) : Trentino-Alto Adige = Piana di Fondi : (Y).
A) (X) Garfagnana ; (Y) Lazio.
B) (X) Val di Non ; (Y) Lazio.
C) (X) Val Brenta ; (Y) Trentino-Alto Adige.

018. Si legga la seguente serie «Franco/Leu/Zloty/…» e si indichi il logico completamento:
A) Hyderabad. **B)** Lira. **C)** Anthurium.

019. Quale gruppo di termini ha analogia con il seguente gruppo? quarzoso - ubiquo - miao - qu.
A) Saggiano - ultimo - vana - eco.
B) Sabbiose - ulcera - mero - sa.
C) Quaderno - calmi - udente - fon.

020. Se X si trova tra A e B; A si trova tra Y e X; B si trova tra X e K; Y si trova tra C e A; K si trova tra B e D è sicuramente vero che:
A) D è più vicino a X che a Y.
B) Non è possibile stabilire se K sia più vicino a B che a C.
C) X è più vicino a D che a K.

021. Ad un tavolo tondo siedono: Paolo, Peter, Piera, Perla, Pino e Paula. Ogni uomo siede tra due donne. Se Perla non è accanto a Pino e Piera è tra Paolo e Pino, di conseguenza Peter:
A) È subito a sinistra di Piera.
B) È tra Paula e Piera.
C) È vicino a Perla.

022. Individuare la figura che completa logicamente la griglia.

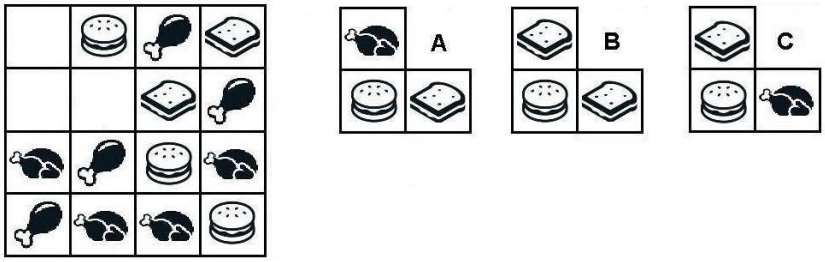

A) Figura C. **B)** Figura B. **C)** Figura A.

023. Individuare il termine che completa logicamente la proporzione. «nefando» sta a «negando» come «dolersi» sta a ..?..
A) Dolcino. **B)** Doversi. **C)** Dolendo.

024. La proporzione si completa con gli elementi indicati con:

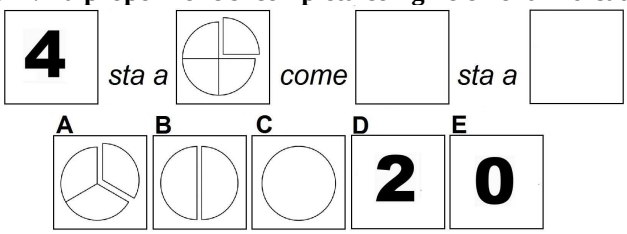

A) Le lettere D – C. **B)** Le lettere D – B. **C)** Le lettere E – A.

Leggere il brano e rispondere alle seguenti 5 domande. (025 - 029)

L'Istat rende disponibili i risultati delle stime prodotte a partire da una base dati sperimentale - ottenuta dall'integrazione di diverse fonti sul mercato del lavoro di tipo LEED (Linked Employer-Employed Data) - che consente di studiare la distribuzione congiunta delle principali caratteristiche della posizione lavorativa, del lavoratore che la occupa, dell'impresa in cui la posizione è collocata e del territorio in cui essa opera. In particolare sono stati integrati a livello di micro-dati: il registro statistico ASIA e il sistema informativo sull'occupazione; il registro tematico RACLI, estensione e parte del "sistema informativo sull'occupazione"; il registro esteso Frame-SBS, relativo ai risultati economici delle imprese. Il campo di osservazione è limitato alla popolazione delle posizioni lavorative dipendenti con più di un'ora di lavoro retribuito occupate nelle imprese con meno di 50 addetti e con sede in un solo comune (7 milioni e 830 mila, pari al 47,8% delle posizioni lavorative dipendenti del settore privato), escludendo i settori agricolo e assicurativo-finanziario.

025. È estensione e parte del "sistema informativo sull'occupazione" il registro:
A) RACLI. **B)** LEED. **C)** ASIA.

026. Si individui l'affermazione corretta.
A) Il campo di osservazione è limitato alla popolazione delle posizioni lavorative dipendenti con più di un'ora di lavoro retribuito occupate nelle imprese con almeno 50 addetti e con sede in un solo comune.
B) ASIA e il sistema informativo sull'occupazione, RACLI e Frame-SBS sono stati integrati a livello di micro-dati.
C) Ottenuta dall'integrazione di diverse fonti sul mercato del lavoro di tipo LEED, la base dati sperimentale consente di studiare la distribuzione congiunta delle principali caratteristiche dell'impresa in cui la posizione lavorativa è collocata ma non del territorio in cui essa opera.

027. Si individui l'affermazione errata.
A) La prima "E" dell'acronimo LEED significa Employer.
B) La base dati sperimentale utilizzata dall'Istat non consente di studiare la distribuzione congiunta delle principali caratteristiche della posizione lavorativa.
C) Frame-SBS è relativo ai risultati economici delle imprese.

028. Il brano descrive il Frame-SBS come:
A) Il registro esteso. **B)** Il registro tematico. **C)** Il registro statistico.

029. Dal campo di osservazione costituito da 7 milioni e 830 mila posizioni, pari al 47,8% delle posizioni lavorative dipendenti del settore privato, resta esclusa:
A) La posizione con meno di un'ora di lavoro retribuito nelle imprese con meno di 70 addetti e con sede in un solo comune, escludendo i settori agricolo e assicurativo-finanziario.
B) La posizione con meno di un'ora di lavoro retribuito nelle imprese con meno di 50 addetti e con sede in un solo comune, compresi i settori agricolo e assicurativo-finanziario.
C) La posizione con meno di un'ora di lavoro retribuito nelle imprese con meno di 50 addetti e con sede in un solo comune, escludendo i settori agricolo e assicurativo-finanziario.

030. Quale dei seguenti termini può sostituire la parola "malia" senza modificare il significato della frase ove essa è inserita?
A) Mimo. **B)** Fattura. **C)** Mancanza.

031. Individuare tra i seguenti il sillogismo che conduce ad una falsa conclusione.
A) Tutti i dermatologi hanno la pelle curata. Matteo è un dermatologo, quindi ha la pelle curata.
B) Tutti i cardiologi hanno il cuore sano. Ernesto ha il cuore sano, quindi è un cardiologo.
C) Tutti i dentisti hanno una bella dentatura. Andrea è un dentista, quindi ha una bella dentatura.

032. Prima di visitare Bergeggi ho visitato Cogoleto, ma prima di visitare Cogoleto ho visitato Spotorno. Dopo aver visitato Spotorno ho visitato Arenzano, ma prima di visitare Arenzano ho visitato Bergeggi. In quale ordine le quattro località sono state visitate da me?
A) Spotorno, Cogoleto, Bergeggi, Arenzano.
B) Bergeggi, Cogoleto, Spotorno, Arenzano.
C) Arenzano, Spotorno, Cogoleto, Bergeggi.

033. Cosa significa negare la frase "tutti i fotografi sono amatori"?
A) Nessun fotografo è professionista.
B) Esiste almeno un fotografo professionista.
C) Devono esistere almeno due fotografi professionisti.

034. Quale termine è il più adatto per indicare “qualcosa esposto al sole e all’aria aperta”?
A) Emetico. **B)** Alea. **C)** Aprico.

035. Trovare il termine intruso tra quelli proposti.
A) Vaticinio. **B)** Coordinazione. **C)** Paratassi.

036. In quali dei seguenti punti i termini sono proposti nell’ordine NOME/VERBO/AGGETTIVO/AVVERBIO?
A) Turgido/Perpetuare/Unicità/Piamente.
B) Gravezza/Infoschire/Formale/Gaiamente.
C) Procace/Presentare/Precisione/Tiepidamente.

037. Quali lettere non inserirebbe al posto degli spazi per ottenere una parola di senso compiuto ed uso corrente? P_ST_.
A) I - O. **B)** O - O. **C)** A - A.

038. Data la parola "palo", quale tra quelle proposte è la meno attinente/collegabile?
A) Luce. **B)** Complice. **C)** Pelo.

039. In quale coppia, tra quelle proposte, i due vocaboli sono collegati da un rapporto di inclusione?
A) Impressionismo, Puntinismo. **B)** Monet, Degas. **C)** Picasso, Pittore.

040. In quale sequenza di lettere le "E" sono a pari numero delle "Z"?
A) BLEQBLEQILEBZILQEBZ.
B) EZEKEKKEKZFZEEZKZZ.
C) MEIEEMEIZKRZMZIIZZZ.

041. In quale riga è presente la seguente sequenza: ZXXXXXZ?
A) XZXXXZZXZXXXXZXZXZZX.
B) XXZXXXXXZXZXXXXXZXXX.
C) XZXZXXZXXXXZXZXZXXXZ.

042. Qual è il totale di "anatre" presenti nelle due tabelle? Quanti "delfini" sono presenti rispettivamente nella prima e nella seconda tabella?



A) 12. In entrambe le tabelle sono presenti 7 "delfini".
B) 11. In entrambe le tabelle sono presenti 7 "delfini".
C) 11. Nella tabella 1 sono presenti 6 "delfini", nella tabella 2 sono presenti 7 "delfini".

043. In quale dei seguenti gruppi la lettera A non precede immediatamente la B e la lettera C non segue immediatamente la F?
A) BACBACBAFBACBFFBAF.
B) FBACBACBACBABFFBAFAF.
C) BAFCACBAFBACBFFABFAF.

044. Quale, tra le seguenti serie di numeri, presenta meno errori di battitura rispetto alla seguente sequenza?
474642, 009; 09746283; 0146323.
A) 474644, 000; 09747283; 1146323.
B) 474642, 000; 09746283; 1146323.
C) 374644, 009; 09747283; 1146323.

045. Se la sequenza è "minuscolo-maiuscolo-minuscolo-minuscolo", quale stringa è scritta in modo corretto?
A) "uLtrsFundArpSPhmoBsg".
B) "hPrguLnfsGthsAmncXhf".
C) "mSgnuSXpcFbspSoiqZys".

Osservare la figura e rispondere alle seguenti 2 domande. (046 - 047)

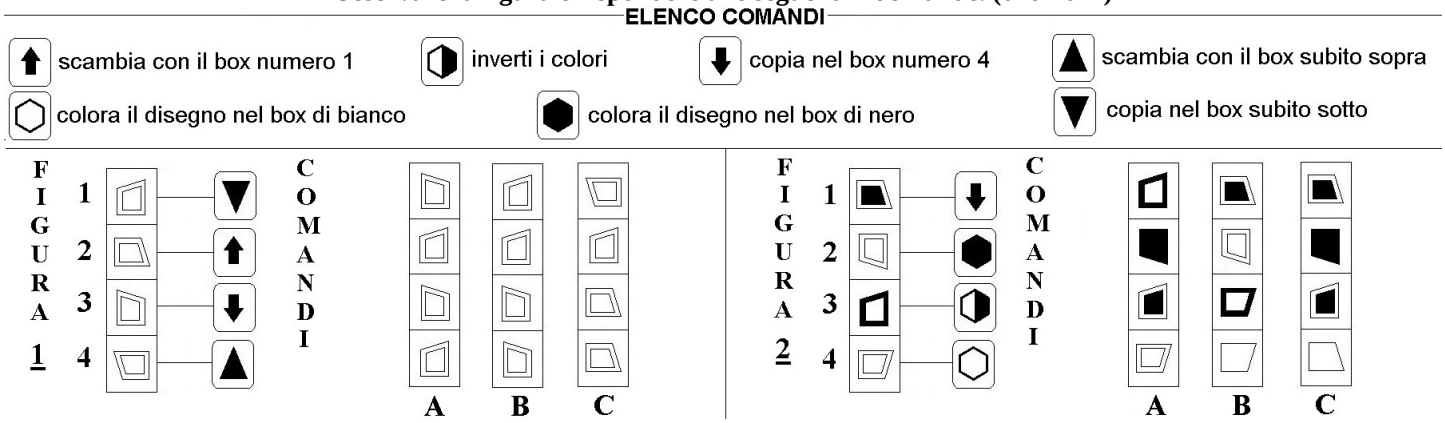

046. Quale figura si ottiene applicando alla FIGURA 2 i COMANDI a lato?
A) La figura C. **B)** La figura B. **C)** La figura A.

047. Quale figura si ottiene applicando alla FIGURA 1 i COMANDI a lato?
A) La figura C. **B)** La figura B. **C)** La figura A.

048. In quale dei seguenti quadrati è proposto il disegno 1, dopo essere stato ruotato e ribaltato?

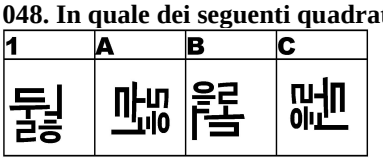

A) Nel quadrato C.
B) Nel quadrato B.
C) Nel quadrato A.

049. Quale delle figure proposte completa la serie ?

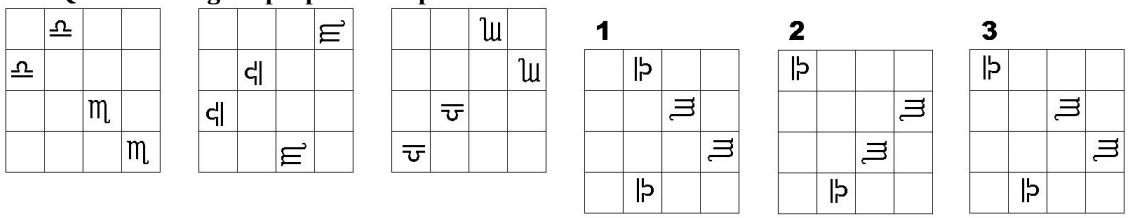

A) La figura 1. **B)** La figura 2. **C)** La figura 3.

050. Quale delle figure proposte completa la serie?

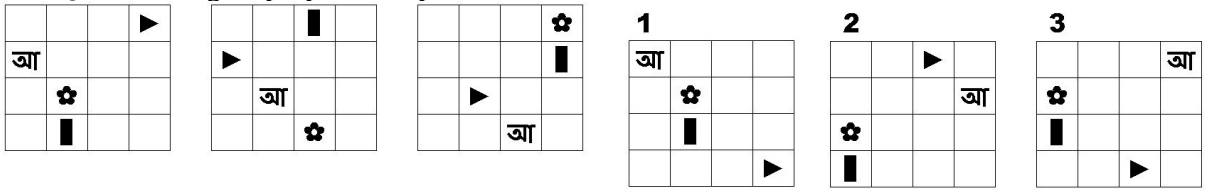

A) La figura 3. **B)** La figura 1. **C)** La figura 2.