AGENZIA DELLE ENTRATE
510 UNITÀ PROFILO PROFESSIONALE FUNZIONARIO, PER ATTIVITÀ AMMINISTRATIVO-TRIBUTARIA
QUESTIONARIO - 12

001. Quale dei seguenti numeri eliminerebbe? 156 - 26 - 364 - 416 - 469.
A) 156. **B)** 364. **C)** 469.

002. Quali numeri completano la serie? 78 - 81 - 74 - 77 - 70 - 73 - … - … - 62 - 65.
A) 66 e 69.
B) 66 e 70.
C) 67 e 69.

003. Temperature registrate alle ore 12:00 del 1° febbraio 2019 nelle principali capitali Europee: Roma 12°, Oslo -7°, Kiev 18°, Riga -16°. Supponendo che quanto riportato sia vero, allora è vero affermare che:
A) Riga registra 9° meno di Oslo.
B) A Roma ci sono 6° più di Riga.
C) A Kiev ci sono 8° più di Roma.

004. L'istituto Sant'Ernesto è una scuola mista: se la differenza fra maschi e femmine è di 80 alunni e le femmine sono i tre quarti dei maschi, quanti sono gli alunni dell'Istituto tra maschi e femmine?
A) 560. **B)** 540. **C)** 480.

005. I proprietari di un appartamento ne cedono la nuda proprietà per un importo pari al 95% del suo valore (156.000 Euro). Poiché tale importo è al lordo di spese e imposte che gravano per il 5% sui proprietari, quale sarà l'importo netto percepito dai proprietari?
A) 140.790 Euro. **B)** 143.650 Euro. **C)** 138.930 Euro.

006. Con quali di questi numeri deve continuare la serie? 23 - 87 - 42 - 76 - 61 - 65 - 80 - 54 - … - ….
A) 99 e 42.
B) 100 e 43.
C) 99 e 43.

007. ! uguale +; / uguale x; " uguale - e ? uguale : Svolgere la seguente espressione: (7 / 9) ! (2 / 3) " (4 / 2) ! (5 / 7) " (3 / 4) =.
A) 78.
B) 84.
C) 82.

008. Se si divide un numero per il prodotto tra 4 e 6 si ottiene 19. Il numero è:
A) 456. **B)** 458. **C)** 454.

009. Quali numeri devono essere inseriti al posto dei puntini? 218 - 225 - … - 239 - … - 253 - 260.
A) 233 e 246.
B) 232 e 247.
C) 232 e 246.

010. Quale simbolo deve essere inserito al posto della Y?
(3x6) + (2-5x3) + (8x1-8) Y (6x4) + (1x4) - (-3x7)
A) >.
B) =.
C) <.

Leggere il brano e rispondere alle seguenti 6 domande. (011 - 016)
Paolo non sa scegliere quale gioiello regalare a sua nipote fra quattro possibili: un anello, una cavigliera, una paio di orecchini e una spilla. I prezzi sono 2.300 euro, 2.400 euro, 2.500 euro e 2.900 euro, non necessariamente in questo ordine. I materiali con cui sono realizzati i gioielli sono palladio, titanio, oro e rodio, non necessariamente in questo ordine.
É inoltre noto che: - 2.300 euro è il prezzo del gioiello in titanio;- gli orecchini sono in rodio; - la spilla, che non è in oro, costa 2.900 euro; - il prezzo della cavigliera è di 2.400 euro.

011. Sulla base delle informazioni fornite, indicare l'affermazione corretta.
A) La spilla è in oro.
B) 2.500 euro è il prezzo del gioiello in oro.
C) 2.900 euro è il prezzo del gioiello in palladio.

012. Quale gioiello è stato realizzato in palladio?
A) La spilla. **B)** Quello che costa 2.400 euro. **C)** La cavigliera.

013. Quale gioiello è stato realizzato in titanio?
A) Quello che costa 2.300 euro. **B)** Quello che costa 2.500 euro. **C)** La spilla.

014. Quale gioiello ha il prezzo maggiore?
A) Quello in oro. **B)** Quello in palladio. **C)** L'anello.

015. Quale gioiello acquisterebbe Paolo se decidesse di scegliere quello che, in base al prezzo, è secondo in ordine decrescente?
A) Quello realizzato in oro. **B)** Il paio di orecchini. **C)** L'anello.

016. Quale gioiello costa 2.300 euro?
A) Quello in titanio. **B)** La spilla. **C)** Il paio di orecchini.

017. Si legga la seguente serie «Fiorino/Riyal/Grivnia/…» e si indichi il logico completamento:
A) Dinaro.
B) Chongqing.
C) Amarillis.

018. Se X si trova tra A e B; A si trova tra Y e X; B si trova tra X e K; Y si trova tra C e A; K si trova tra B e D è sicuramente vero che:
A) D è più vicino a X che a B.
B) A è più vicino a Y che a C.
C) Non è possibile stabilire se B sia più vicino a K che a D.

019. Quali dei seguenti termini integrano la serie? patata - tacere - remoto - totano - _____ - _____.
A) Nobile - levato. **B)** Noto - tollerante. **C)** Nodo - ninfea.

020. Individuare la coppia che completa correttamente la proporzione. Etna : Sicilia = (X) : Lazio = Monte Velino : (Y).
A) (X) Gran Sasso; (Y) Toscana.
B) (X) Monti Prenestini ; (Y) Molise.
C) (X) Terminillo ; (Y) Abruzzo.

021. Aldo, Bruna, Carlo, Dafne e Raul siedono ad un tavolo ovale. Se Aldo non è accanto a Dafne e Bruna è tra Carlo e Aldo, di conseguenza tra chi è seduto Raul?
A) Bruna e Aldo.
B) Aldo e Dafne.
C) Due uomini.

022. Individuare il termine che completa logicamente la proporzione. "gennaio" sta a "gessaio" come "gessare" sta a ..?..
A) Gestore.
B) Gessato.
C) Gettare.

023. Individuare la figura che completa logicamente la griglia.

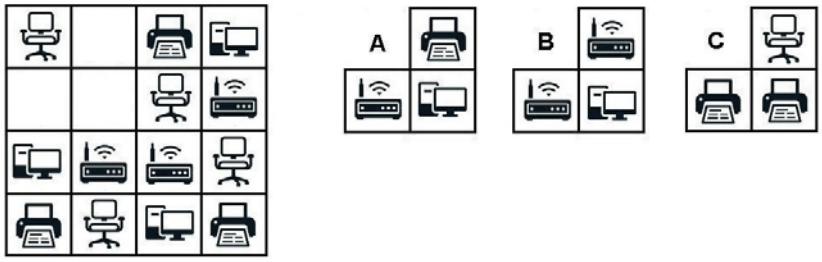

A) Figura A. **B)** Figura B. **C)** Figura C.

024. Quali sono rispettivamente il secondo e il terzo elemento nella serie?

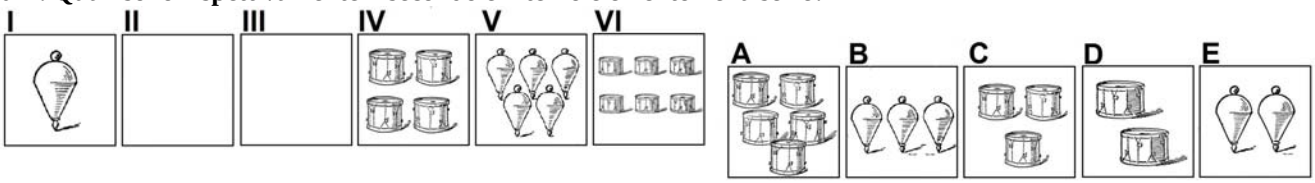

A) Elementi E - A. **B)** Elementi D - B. **C)** Elementi C - B.

Leggere il brano e rispondere alle seguenti 5 domande. (025 - 029)

ISTAT - INDAGINE SULLE SPESE DELLE FAMIGLIE: COME CONSULTARE I RISULTATI DELL'INDAGINE
I principali risultati della rilevazione sono disponibili sul data warehouse I.Stat e sul sito web dell'Istituto, attraverso le statistiche report. Ogni anno i dati raccolti vengono analizzati e pubblicati anche su volumi a carattere generale (Rapporto annuale, Annuario statistico italiano, Noi Italia, Italia in cifre) e, occasionalmente, nelle collane di approfondimento o analisi dell'Istat, consultabili nella sezione dedicata alla produzione editoriale. Inoltre, i dati elementari rilevati nel corso dell'indagine sono scaricabili direttamente dal sito Istat (file ad uso pubblico mIcro.STAT) o rilasciabili a studiosi di università o enti di ricerca a seguito della presentazione di un progetto di ricerca (file per la ricerca MFR). Per quanto riguarda i metadati della rilevazione, nonché il contenuto informativo, si può consultare il sistema informativo sulla qualità SIQual.

025. I principali risultati della rilevazione sono disponibili sul sito web dell'Istituto?
A) Si, attraverso le statistiche report.
B) No, sono disponibili sul data warehouse I.Stat.
C) Si, sono disponibili esclusivamente attraverso le statistiche report.

026. Per quanto riguarda i metadati della rilevazione, nonché il contenuto informativo, si può consultare:
A) SIQual. **B)** I file MFR. **C)** MIcro.STAT.

027. Secondo il brano con quale periodicità i dati raccolti vengono analizzati e pubblicati su Noi Italia?
A) Ogni cinque anni. **B)** Occasionalmente. **C)** Ogni anno.

028. Secondo il brano i dati raccolti sono pubblicati nelle collane di approfondimento o analisi dell'Istat, consultabili nella sezione dedicata alla produzione editoriale:
A) Bimestralmente. **B)** Periodicamente. **C)** Occasionalmente.

029. Secondo il brano quali sono i volumi a carattere generale sui quali i dati raccolti vengono analizzati e pubblicati?
A) Entrambi quelli citati nelle altre risposte.
B) Italia in cifre.
C) Annuario statistico italiano.

030. Il porcellino d'india non va d'accordo con il procione, ma va d'accordo con il cincillà. Il procione non va d'accordo con il cincillà. Il cincillà va d'accordo con il coniglietto ma non con il procione. Il coniglietto va d'accordo con il porcellino d'india ma non con il furetto. Tra i tre animali di seguito proposti:
A) Il procione è quello che va d'accordo con il maggior numero di animali rispetto agli altri.
B) Il cincillà è quello che va d'accordo con il maggior numero di animali rispetto agli altri.
C) Il furetto è quello che va d'accordo con il maggior numero di animali rispetto agli altri.

031. Quali lettere non inserirebbe al posto degli spazi per ottenere una parola di senso compiuto ed uso corrente?
M_L_.
A) I - E. **B)** E - E. **C)** O - I.

032. In quali dei seguenti punti i termini sono proposti nell'ordine NOME/VERBO/AGGETTIVO/AVVERBIO?
A) Stabile/Stabilizzare/Rudemente/Semplice.
B) Quiete/Realmente/Prosperità/Puramente.
C) Sicurezza/Sensibilizzare/Serio/Sconciamente.

033. Data la parola "soccorso", quale tra quelle proposte è la meno attinente/collegabile?
A) Primo. **B)** Lavello. **C)** Pronto.

034. In quale coppia, tra quelle proposte, i due vocaboli sono collegati da un rapporto di inclusione?
A) Mascara, rossetto.
B) Mascara, trucchi.
C) Rossetto, burro di cacao.

035. Quale termine è il più adatto per indicare un "atteggiamento tendente a pretendere e imporre privilegi"?
A) Gnosticismo. **B)** Mandarinismo. **C)** Antinomismo.

036. Quale dei seguenti termini può sostituire la parola "rintuzzare" senza modificare il significato della frase ove essa è inserita?
A) Rimpolpare. **B)** Rattizzare. **C)** Respingere.

037. Cosa significa negare la frase "tutte le donne sono chiacchierone"?
A) Nessuna donna è taciturna.
B) Esiste almeno una donna taciturna.
C) Devono esistere almeno due donne taciturne.

038. Individuare tra i seguenti il sillogismo che conduce ad una falsa conclusione.
A) Tutte le ragazze di Palermo sono passionali. Io sono di Palermo, quindi sono passionale.
B) Tutte le ragazze di Milano sono alla moda. Io sono alla moda, quindi sono di Milano.
C) Tutte le ragazze di Roma sono simpatiche. Io sono di Roma, quindi sono simpatica.

039. Trovare il termine intruso tra quelli proposti.
A) Triangolo. **B)** Piatti. **C)** Clavicembalo.

040. Individuare il gruppo di numeri che risulti esattamente il contrario della seguente base: 031119432604197707.
A) 707719046234911130.
B) 707791402634191130.
C) 707791406234911130.

041. Quale, tra le seguenti serie di numeri, presenta un solo errore di battitura rispetto alla seguente sequenza?
53564,557 - 5513311/111 - 5676887/1.
A) 53564,557 - 5513311/111 - 5676887/1.
B) 53664,557 - 5713311/111 - 5676887/1.
C) 53564,557 - 5513311/211 - 5676887/1.

042. Qual è il totale di "orologi" presenti nelle due tabelle? Quante "note" sono contenute rispettivamente nella prima e nella seconda tabella?

A) 10. Nella tabella 1 sono contenute 6 "note", nella tabella 2 sono contenute 4 "note".
B) 10. Nella tabella 1 sono contenute 7 "note", nella tabella 2 sono contenute 5 "note".
C) 9. Nella tabella 1 sono contenute 7 "note", nella tabella 2 sono contenute 5 "note".

043. Se la sequenza è "maiuscolo-maiuscolo-minuscolo-maiuscolo", quale stringa è scritta in modo corretto?
A) "EDsSSDcuSQuODGsZMLrG".
B) "ADuNDUcMQUhGLSgBGSgS".
C) "GGuGDPsSGNhBEPbnLSoZ".

044. In quale riga è presente la seguente sequenza: HHRRRRHRRH?
A) RRRRHRHHHRRRHRRHHRH.
B) RRHHHHHRHHRHRHHHRHH.
C) HHHRRHRRRHRRRHHRRRR.

045. In quale dei seguenti gruppi il numero 2 non segue immediatamente il 9 e il numero 8 non precede immediatamente il 3?
A) 98839893292222833933893292.
B) 89393829893299882238932 98.
C) 33839898932929882283399 22.

Osservare la figura e rispondere alle seguenti 2 domande. (046 - 047)



046. Quale figura si ottiene applicando alla FIGURA 2 i COMANDI a lato?
A) La figura A. **B)** La figura C. **C)** La figura B.

047. Quale figura si ottiene applicando alla FIGURA 1 i COMANDI a lato?
A) La figura B. **B)** La figura C. **C)** La figura A.

048. Quale delle figure proposte completa la serie?

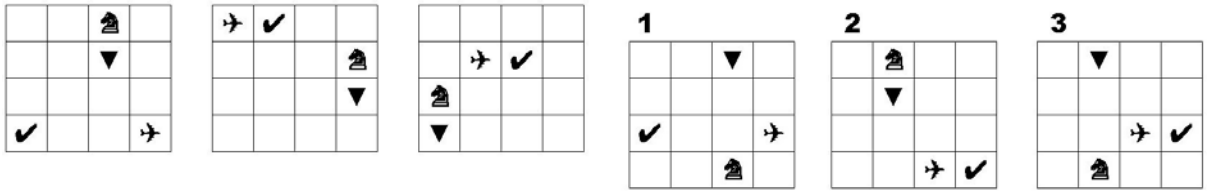

A) La figura 3. **B)** La figura 2. **C)** La figura 1.

049. Quale delle figure proposte completa la serie ?

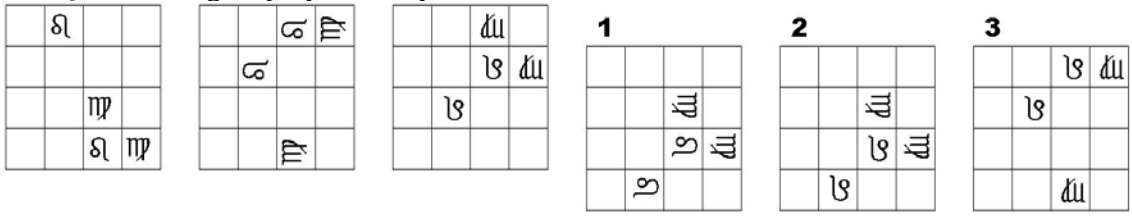

A) La figura 2. **B)** La figura 3. **C)** La figura 1.

050. In quale dei seguenti quadrati è proposto il disegno 1, dopo essere stato ruotato e ribaltato?

A) Nel quadrato C. **B)** Nel quadrato B. **C)** Nel quadrato A.