AGENZIA DELLE ENTRATE
510 UNITÀ PROFILO PROFESSIONALE FUNZIONARIO, PER ATTIVITÀ AMMINISTRATIVO-TRIBUTARIA
QUESTIONARIO - 18

001. Partendo dal meridiano di Greenwich si percorrano 946 km verso est viaggiando parallelamente all'equatore. Si torni poi indietro percorrendo 1.069 km verso ovest. A che distanza ci si trova adesso rispetto al meridiano di Greenwich (assunto come Zero)?
A) -132 km. **B)** 132 km. **C)** -123 km.

002. Quali numeri devono essere inseriti al posto dei puntini? 191 - 205 - … - 233 - … - 261 - 275.
A) 219 e 248.
B) 219 e 247.
C) 220 e 247.

003. Con quali di questi numeri deve continuare la serie? 46 - 79 - 69 - 62 - 92 - 45 - 115 - 28 - … - ….
A) 139 e 11.
B) 138 e 10.
C) 138 e 11.

004. Quale dei seguenti numeri eliminerebbe? 161 - 266 - 287 - 112 - 57.
A) 57. **B)** 266. **C)** 161.

005. Calcolare il numero che moltiplicato per 24 e diviso per 6 è uguale a 148.
A) 37. **B)** 38. **C)** 36.

006. Quali numeri completano la serie? 214 - 225 - 219 - 230 - 224 - 235 - … - … - 234 - 245.
A) 229 e 241.
B) 230 e 240.
C) 229 e 240.

007. Usando solo la cifra "5" si sono costruite espressioni con risultati diversi. In quale delle seguenti il risultato è maggiore?
A) ? = 5 + 5/5 + 5/5.
B) ? = 5 - 5 + 5 - 5 + 5.
C) ? = (5 + 5 - 5 - 5) x 5.

008. Luca ha due sesti dell'età di suo zio. Sapendo che la somma delle loro età è pari a 48, quanti anni hanno rispettivamente lo zio e Luca?
A) 36 e 12. **B)** 35 e 13. **C)** 34 e 14.

009. Quali segni matematici devono essere inseriti nell'ordine al posto dei punti affinché:

938 ... 393 ... 32 ... 3.958 ... 832 = 6.153

A) + + + + +.
B) + + - - +.
C) + - - + +.

010. La Sala Concerti Verdi propone i seguenti abbonamenti: mensile a euro 55; trimestrale a euro 150 e annuale a euro 600. Quanto si risparmia mensilmente se si acquista l'abbonamento annuale rispetto a quello mensile?
A) 4,50 Euro. **B)** 6 Euro. **C)** 5 Euro.

Leggere il brano e rispondere alle seguenti 6 domande. (011 - 016)

Paola ha deciso di acquistare una scrivania per pc tra quattro possibili: Strum, Sabi, Yori, Tomo. Le scrivanie sono in: plastica, acciaio, legno e alluminio, non necessariamente in questo ordine; i prezzi delle scrivanie sono euro: 120, 150, 170 e 210 non necessariamente in questo ordine. Le misure delle scrivanie, proposte in ordine sparso, sono: 50x65, 50x75, 50x80, 50x95 cm.
È inoltre noto che: - la Yori è in legno, costa 210 euro e misura 50x65 cm; - la scrivania che costa 120 euro è in plastica;- la Sabi misura 50x75 ed è in alluminio; - il prezzo della Tomo è 170 euro e misura meno di 50x95 cm.

011. Quale scrivania ha dimensioni 50x80 cm?
A) Tomo. **B)** Quella in plastica. **C)** Quella in alluminio.

012. Quale scrivania sceglierebbe Paola se decidesse per quella che, in base alle dimensioni è terza in ordine crescente?
A) Quella in plastica. **B)** Quella in alluminio. **C)** Quella che costa 170 euro.

013. Quale scrivania sceglierebbe Paola se decidesse per quella che, in base al prezzo è terza in ordine decrescente?
A) Quella in alluminio. **B)** Quella che misura 50x95 cm. **C)** Tomo.

014. Quale scrivania ha dimensioni maggiori?
A) Sabi. **B)** Quella in acciaio. **C)** Strum.

015. Quale scrivania costa 150 euro?
A) Quella che misura 50x80 cm. **B)** Quella che misura 50x95 cm. **C)** Quella in alluminio.

016. Sulla base delle informazioni fornite, indicare l'affermazione corretta.
A) La Tomo è in alluminio. **B)** La Sabi costa 170 euro. **C)** La Strum costa 120 euro.

017. Individuare il termine che completa logicamente la proporzione. «saltare» sta a «salvare» come «volgare» sta a ..?..
A) Voltare. **B)** Volgata. **C)** Vociare.

018. Si legga la seguente serie «Rupia/Scellino/Yen/…» e si indichi il logico completamento:
A) Aucuba. **B)** Rublo. **C)** Shenyang.

019. Ad un tavolo tondo siedono: Guido, Gildo, Giada, Giusy, Gigi e Gloria. Ogni uomo siede tra due donne. Se Giusy non è accanto a Gigi e Giada è tra Guido e Gigi, di conseguenza Gildo:
A) È di certo vicino Gloria.
B) Non è vicino a Gloria.
C) È fra Giusy e Giada.

020. Individuare la figura che completa logicamente la griglia.

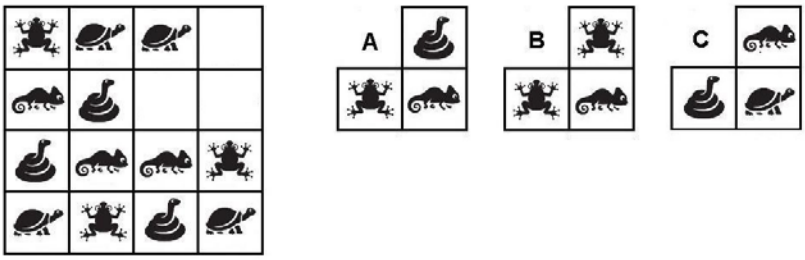

A) Figura B. **B)** Figura A. **C)** Figura C.

021. Individuare la coppia che completa correttamente la proporzione. Campi Flegrei : Campania = (X) : Calabria = Val Camonica : (Y).
A) (X) Gran Sasso ; (Y) Valle d'Aosta.
B) (X) Sila ; (Y) Lombardia.
C) (X) Piana di Gioia Tauro ; (Y) Piemonte.

022. Quali dei seguenti termini integrano la serie? gelone - nemico - comico - colino - _____ - _____.
A) Nipote - oblio. **B)** Nitido - dolce. **C)** Nocino - nocivo.

023. Se X si trova tra A e B; A si trova tra Y e X; B si trova tra X e K; Y si trova tra C e A; K si trova tra B e D è sicuramente vero che:
A) Non è possibile stabilire se Y sia più vicino a A che a X.
B) B è più vicino a X che a Y.
C) D è più vicino a C che a B.

024. La proporzione si completa con gli elementi indicati con:

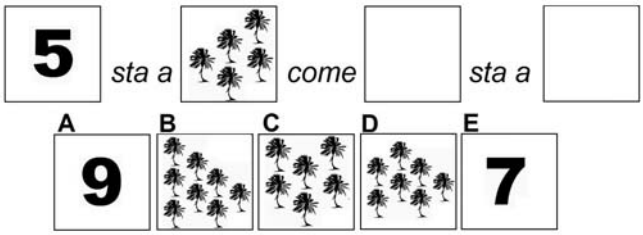

A) Le lettere E – C. **B)** Le lettere A – B. **C)** Le lettere E – D.

Leggere il brano e rispondere alle seguenti 5 domande. (025 - 029)

ISTAT – Il Mercato del Lavoro – Periodo di riferimento III trimestre 2018 - Dal lato delle imprese, prosegue la crescita congiunturale della domanda di lavoro, con un aumento delle posizioni lavorative dipendenti dello 0,5% sul trimestre precedente e del 2,1% su base annua, sintesi della crescita sia dell'industria sia dei servizi. L'aumento delle posizioni lavorative è associato ad un aumento delle ore lavorate per dipendente dello 0,2% su base congiunturale e ad una diminuzione dello 0,1% su base annua. Il tasso dei posti vacanti rimane invariato sia su base congiunturale sia su base annua. Il costo del lavoro cresce dello 0,5% rispetto al trimestre precedente e del 2,2% rispetto allo stesso trimestre dell'anno precedente, sintesi di un aumento più sostenuto degli oneri sociali (+1,1% su base congiunturale e +4,7% su base annua) rispetto a quello delle retribuzioni (+0,2% su base congiunturale e +1,3% su base annua).

025. Secondo il brano, il tasso dei posti vacanti rimane invariato:
A) Sia su base congiunturale sia su base annua.
B) Su base congiunturale ma non su base annua.
C) Su base annua ma non su base congiunturale.

026. Secondo il brano l'aumento degli oneri sociali rispetto a quello delle retribuzioni è:
A) Meno sostenuto. **B)** Più sostenuto. **C)** Meno sostenuto su base annua.

027. Secondo il brano l'aumento delle posizioni lavorative è associato:
A) Ad un aumento delle ore lavorate per dipendente su base congiunturale.
B) Ad un aumento delle ore lavorate per dipendente su base annua.
C) Ad una diminuzione delle ore lavorate per dipendente su base congiunturale.

028. Dal lato delle imprese, le posizioni lavorative dipendenti aumentano dello 0,5%:
A) Sul trimestre precedente. **B)** Su base annua. **C)** Nei soli servizi.

029. Secondo il brano, il costo del lavoro cresce di un valore percentuale maggiore rispetto al trimestre precedente o rispetto allo stesso trimestre dell'anno precedente?
A) Cresce di un valore percentuale maggiore rispetto al trimestre precedente.
B) Il costo del lavoro cresce dello stesso valore percentuale rispetto ai due periodi.
C) Cresce di un valore percentuale maggiore rispetto allo stesso trimestre dell'anno precedente.

030. Il leone non va d'accordo con il rinoceronte, ma va d'accordo con il puma. Il rinoceronte non va d'accordo con il puma. Il puma va d'accordo con il coccodrillo ma non con il rinoceronte. Il coccodrillo va d'accordo con il leone ma non con la zebra. Tra i tre animali di seguito proposti:
A) Il rinoceronte è quello che va d'accordo con il maggior numero di animali rispetto agli altri.
B) Il puma è quello che va d'accordo con il maggior numero di animali rispetto agli altri.
C) La zebra è quella che va d'accordo con il maggior numero di animali rispetto agli altri.

031. Quale delle seguenti locuzioni può sostituire la parola "facondia" senza modificare il significato della frase ove essa è inserita?
A) Produzione di espressioni verbali stentate.
B) Eleganza di espressione.
C) Difficoltà nell'eloquio.

032. In quale coppia, tra quelle proposte, i due vocaboli sono collegati da un rapporto di inclusione?
A) Spagna, Portogallo.
B) Borgogna, Francia.
C) Liguria, Emilia.

033. Data la parola "aereo", quale tra quelle proposte è la meno attinente/collegabile?
A) Cioccolato. **B)** Disastro. **C)** Linea.

034. In quali dei seguenti punti i termini sono proposti nell'ordine NOME/VERBO/AGGETTIVO/AVVERBIO?
A) Fulgidezza/Ingentilire/Ricchezza/Fertilmente.
B) Follia/Affiochire/Abietto/Gaiamente.
C) Giustizia/Ingrassare/Grecità/Foschezza.

035. Individuare tra i seguenti il sillogismo che conduce ad una falsa conclusione.
A) Se sei di Caserta hai visitato la Reggia di Caserta. Paolo è di Caserta, quindi ha visitato la Reggia di Caserta.
B) Se sei di Genova, ti piace la focaccia. Chiara è di Genova, quindi le piace la focaccia.
C) Se sei di Venezia, a Carnevale ti mascheri. Giulia si maschera a Carnevale, quindi è di Venezia.

036. Quali lettere non inserirebbe al posto degli spazi per ottenere una parola di senso compiuto ed uso corrente?
T_M_.
A) A - A. **B)** I - O. **C)** E - A.

037. Quale termine è il più adatto per indicare il "discutere perdendosi in pedanterie inutili e sottigliezze superflue"?
A) Barbagliare.
B) Bizantineggiare.
C) Assurgere.

038. Trovare il termine intruso tra quelli proposti.
A) Racconto. **B)** Ode. **C)** Sonetto.

039. Cosa significa negare la frase "tutti i gatti sono coraggiosi"?
A) Nessun gatto è pauroso.
B) Esiste almeno un gatto pauroso.
C) Devono esistere almeno due gatti paurosi.

040. La "matita" quante volte è presente nelle due tabelle? Quante "frecce" sono contenute rispettivamente nella prima e nella seconda tabella?

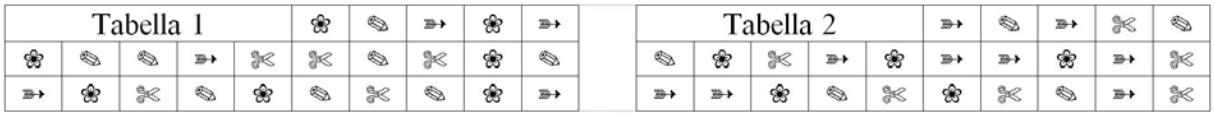

A) 12. In entrambe le tabelle sono contenute 5 "frecce".
B) 13. Nella tabella 1 sono contenute 5 "frecce", nella tabella 2 sono contenute 8 "frecce".
C) 13. Nella tabella 1 sono contenute 5 "frecce", nella tabella 2 sono contenute 9 "frecce".

041. Se la sequenza è "numero-numero-numero-lettera", quale stringa è scritta in modo errato?
A) 892D959F256G955G885SD956P95L.
B) 239U692T552T396R565E598M229L.
C) 958M825A258D599D962F899P235Z.

042. In quale dei seguenti gruppi il numero 8 non segue immediatamente il 9 e il numero 3 non precede immediatamente il 6?
A) 93369396898883669663968 98.
B) 39696389396899338863968 93.
C) 96898933883669663968983 93.

043. Quale, tra le seguenti, presenta due discrepanze rispetto alla base? FELPE - MAMMA - PALLA.
A) FELPA - MAMMA - PALLA.
B) FELPA - MAMME - PALLA.
C) FELPA - MAMME - PALLE.

044. In quale, tra le seguenti sequenze di cifre, è presente, almeno una volta, la seguente stringa numerica "319913"?
A) 99133123121993125699871211.
B) 21319713129799312113213111.
C) 31991321139978921319913312.

045. In quale sequenza di lettere le "V" sono più numerose delle "L"?
A) VOSEOVLESLLVLVLELOL.
B) VKOVSVEOVLESLOOVLLL.
C) OVVVVSVOVLESLOLESLO.

Osservare la figura e rispondere alle seguenti 2 domande. (046 - 047)

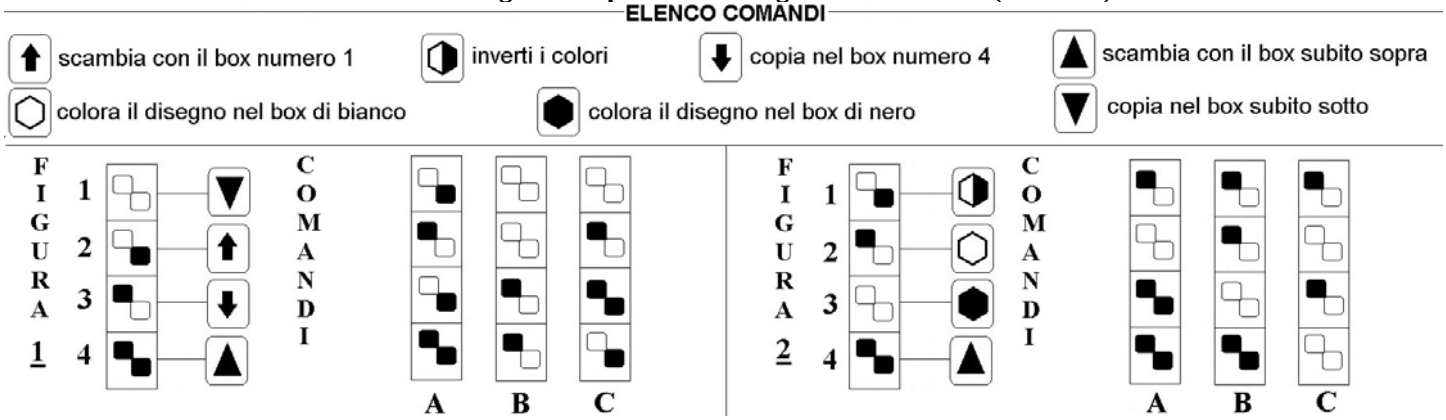

046. Quale figura si ottiene applicando alla FIGURA 1 i COMANDI a lato?
A) La figura C. **B)** La figura A. **C)** La figura B.

047. Quale figura si ottiene applicando alla FIGURA 2 i COMANDI a lato?
A) La figura C. **B)** La figura A. **C)** La figura B.

048. Quale delle figure proposte completa la serie?

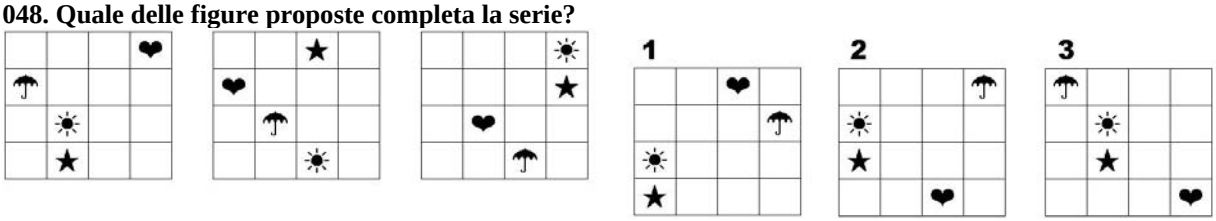

A) La figura 3. **B)** La figura 2. **C)** La figura 1.

049. In quale dei seguenti quadrati è proposto il disegno 1, dopo essere stato ruotato e ribaltato?

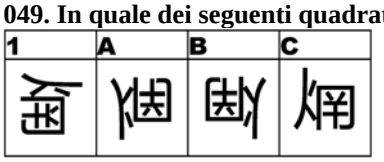

A) Nel quadrato C. **B)** Nel quadrato B. **C)** Nel quadrato A.

050. Quale delle figure proposte completa la serie ?

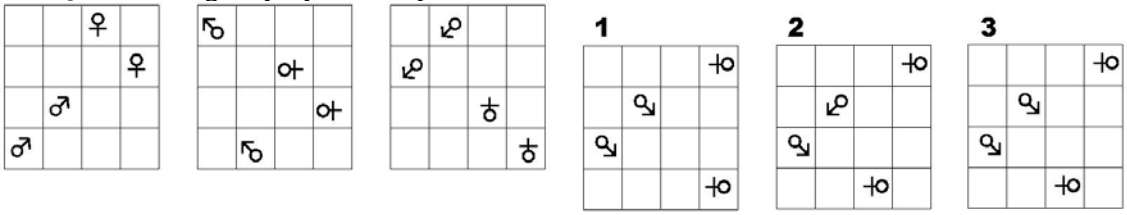

A) La figura 3. **B)** La figura 2. **C)** La figura 1.