AGENZIA DELLE ENTRATE
510 UNITÀ PROFILO PROFESSIONALE FUNZIONARIO, PER ATTIVITÀ AMMINISTRATIVO-TRIBUTARIA
QUESTIONARIO - 60

001. Con quali di questi numeri deve continuare la serie? 127 - 128 - 122 - 137 - 117 - 146 - 112 - 155 - … - ….
A) 107 e 165. **B)** 106 e 164. **C)** 107 e 164.

002. Quale simbolo deve essere inserito al posto della Y?

(4x5)+(8x9)+(1x2) Y (4x4)+(3x6)+(7x3)

A) <.
B) =.
C) >.

003. Il triplo di quale numero, diminuito di 16 è uguale a 62?
A) 27. **B)** 25. **C)** 26.

004. Usando solo la cifra "5" si sono costruite espressioni con risultati diversi. In quale delle seguenti il risultato è minore?
A) ? = 5 + 5/5 + 5/5.
B) ? = (5 + 5 - 5 - 5) x 5.
C) ? = 5 - (5 + 5 + 5)/5.

005. Il costo di un quaderno è 8/9 di quello di un diario. Sapendo che comprandoli entrambi pago Euro 8,50 quanto costa il diario e quanto costa il quaderno?
A) Il diario Euro 6,50 e il quaderno Euro 2.
B) Il diario Euro 5,50 e il quaderno Euro 3.
C) Il diario Euro 4,50 e il quaderno Euro 4.

006. Quali numeri completano la serie? 90 - 93 - 86 - 89 - 82 - 85 - … - … - 74 - 77.
A) 79 e 81. **B)** 78 e 82. **C)** 78 e 81.

007. Quale dei seguenti numeri eliminerebbe? 407 - 231 - 363 - 265 - 451.
A) 265. **B)** 363. **C)** 231.

008. Pieve; Polanesi; Chiavari e Recco sono 4 paesini disposti l'uno dopo l'altro lungo un percorso rettilineo. Per andare da Pieve a Polanesi occorrono 25 minuti; per andare da Polanesi a Recco ne occorrono 40 e per andare da Polanesi a Chiavari 15. Se parto alle ore 23:55 da Chiavari, quando arriverò a Recco?
A) 00:13. **B)** 00:18. **C)** 00:20.

009. Quali numeri devono essere inseriti al posto dei puntini? 88 - 101 - … - 127 - … - 153 - 166.
A) 114 e 141.
B) 115 e 140.
C) 114 e 140.

010. Una mostra di bambole Reborn è composta complessivamente da 396 pezzi, 66 per ogni stanza. 33 bambole di ogni stanza sono realizzate con la tecnica "Reborning Process", le restanti con la tecnica "Newborning Process". Quante bambole realizzate con la tecnica "Newborning Process" sono presenti nella mostra?
A) 200. **B)** 199. **C)** 198.

Leggere il brano e rispondere alle seguenti 6 domande. (011 - 016)

Una signora ha deciso di acquistare delle tende per la sua casa fra quattro possibili: 1) tende a vetro, 2) tende alla veneziana, 3) tende con calate, 4) tende con passamaneria. Le tende sono realizzate in: jersey, canvas, lycra e pizzo, non necessariamente in questo ordine; i prezzi delle tende sono euro: 120, 130, 145 e 162 non necessariamente in questo ordine. Ogni tessuto è caratterizzato da disegni: rombi, quadrati, strisce e bastoncini non necessariamente in questo ordine.
È inoltre noto che: la tenda che costa 120 euro è in pizzo; la tenda alla veneziana è in canvas con disegni quadrati; il prezzo della tenda con passamaneria è 145 euro e ha disegni a bastoncini; la tenda con calate è in lycra, costa 162 euro ed ha disegni a rombi.

011. Quale tenda è in jersey?
A) La tenda con calate. **B)** La tenda a vetro. **C)** La tenda con passamaneria.

012. Sulla base delle informazioni fornite, indicare l'affermazione corretta.
A) La tenda a vetro costa 120 euro.
B) La tenda alla veneziana costa 145 euro.
C) La tenda con i disegni a rombi costa 130.

013. Qual è la tenda con disegni a strisce?
A) Quella a vetro. **B)** Quella alla veneziana. **C)** Quella in pizzo.

014. Quale tenda sceglierebbe la signora se decidesse per quella che, in base al prezzo, è terza in ordine decrescente?
A) La tenda con passamaneria. **B)** La tenda con disegni a quadrati. **C)** La tenda con disegni a bastoncini.

015. Qual è il disegno della tenda a vetro?
A) Quadrati. **B)** Bastoncini. **C)** Strisce.

016. Quale tenda costa 145 euro?
A) Quella in canvas. **B)** Quella in jersey. **C)** Quella con disegni a strisce.

017. Se X si trova tra A e B; A si trova tra Y e X; B si trova tra X e K; Y si trova tra C e A; K si trova tra B e D è sicuramente vero che:
A) B è più vicino a X che a C.
B) D è più vicino a A che a B.
C) Non è possibile stabilire se C sia più vicino a A che a D.

018. Individuare la coppia che completa correttamente la proporzione. Capraia : Toscana = (X) : Sardegna = Vulcano : (Y).
A) (X) La Maddalena; (Y) Sicilia.
B) (X) Sassari; (Y) Sicilia.
C) (X) Regione; (Y) Monte.

019. Individuare il termine che completa logicamente la proporzione. "ricucio" sta a "ricurvo" come "passato" sta a ..?..
A) Passero. **B)** Passiti. **C)** Pastone.

020. Individuare la figura che completa logicamente la griglia.

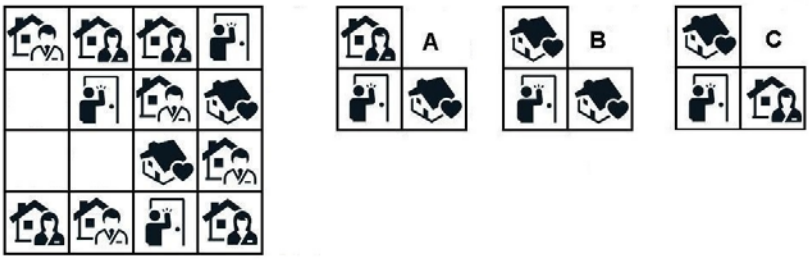

A) Figura C. **B)** Figura B. **C)** Figura A.

021. Quali sono rispettivamente il terzo e il quarto elemento nella serie?

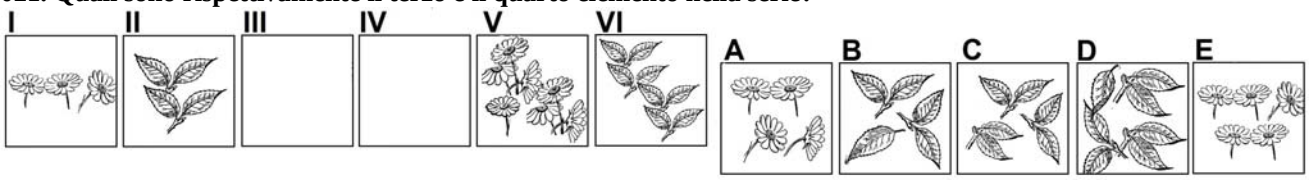

A) Elementi E - C. **B)** Elementi A - D. **C)** Elementi B - D.

022. Ad un tavolo tondo siedono: Mario, Mauro, Maira, Maela, Mirko e Magda. Ogni uomo siede tra due donne. Se Maela non è accanto a Mirko e Maira è tra Mario e Mirko, di conseguenza Mauro:
A) Siede accanto a Mario.
B) Siede accanto a Maela.
C) Non è accanto a Magda.

023. Se Volare sta a .?. allora è logico che .?. stia a Pangasio.
A) Banchina - Cielo.
B) Fringuello - Nuotare.
C) Cielo - Scampo.

024. Quale dei seguenti termini integra correttamente la serie? salve - sacello - saettammo.
A) Saccheggiata. **B)** Sacrificata. **C)** Saccentona.

Leggere il brano e rispondere alle seguenti 5 domande. (025 - 029)

L'INSERIMENTO PROFESSIONALE DEI DOTTORI DI RICERCA - Nel 2018, a sei anni dal titolo il 24,1% dei dottori occupati è impiegato nel settore dell'istruzione universitaria: tra questi, il 51,1% con un lavoro dipendente mentre il 36,6% è finanziato da assegni di ricerca. Un dottore su dieci lavora come professore o ricercatore universitario; fra coloro che vivono all'estero lo stesso rapporto è di un dottore su quattro. In aumento rispetto al passato la quota di occupati nel settore dell'istruzione non universitaria (dal 12,4% per la coorte 2004 al 17% per la coorte del 2012). A sei anni dal titolo, il 69,8% degli occupati riferisce di svolgere attività di ricerca e sviluppo, meno di quanto riferito dai dottori del 2008 (73,4%). Nonostante sia in calo la soddisfazione (non rifarebbe lo stesso corso il 38,3% dei dottori 2014, +10 punti percentuali rispetto ai dottori 2004) il dottorato è giudicato utile per l'accesso al lavoro da più del 79% degli occupati dopo il conseguimento del titolo.

025. Si evince dal brano che tra i dottori 2004 la percentuale di chi non rifarebbe lo stesso corso è del:
A) 38,3%. **B)** 28,3%. **C)** 69,8%.

026. Quale è per la coorte 2012 la percentuale dei dottori occupati impiegati nel settore dell'istruzione universitaria e quanti fra questi sono dipendenti?
A) 36,6 - 51,1. **B)** 24,1 - 51,1. **C)** 51,1 - 36,6.

027. Quale delle seguenti affermazioni è conforme a quanto esposto nel brano?
A) Nel 2012 la quota di occupati nel settore dell'istruzione non universitaria era del 17%.
B) Nel 2004 la quota di occupati nel settore dell'istruzione non universitaria era del 12,4%.
C) Nel 2018 aumenta la percentuale di occupati nel settore dell'istruzione non universitaria rispetto agli anni precedenti.

028. Fra i dottori di ricerca che vivono all'estero lavora come professore o ricercatore universitario 1 dottore su:
A) 40. **B)** 10. **C)** 4.

029. È finanziato da assegni di ricerca il 36,6%:
A) Del totale dei dottori di ricerca che hanno conseguito il titolo da sei anni.
B) Dei dottori occupati a sei anni dal titolo.
C) Dei dottori occupati impiegati nel settore dell'istruzione universitaria a sei anni dal titolo.

030. Quale dei seguenti termini può sostituire la parola "pulcro" senza modificare il significato della frase ove essa è inserita?
A) Leggiadro. **B)** Bagliore. **C)** Avvezzo.

031. Data la parola "vino", quale tra quelle proposte è la meno attinente/collegabile?
A) Santo.
B) Conto.
C) Mescita.

032. Quale termine è il più adatto per indicare “chi esageratamente, e spesso ipocritamente, ostenta devozione religiosa”?
A) Gabbo. **B)** Santippe. **C)** Baciapile.

033. Cosa significa negare la frase "tutti i corsisti sono minorenni"?
A) Nessun corsista è maggiorenne.
B) Esiste almeno un corsista maggiorenne.
C) Devono esistere almeno due corsisti maggiorenni.

034. Individuare tra i seguenti il sillogismo che conduce ad una falsa conclusione.
A) Tutte le Honda hanno ottimi motori. La mia moto è una Honda. Dunque la mia moto ha un ottimo motore.
B) Saltare i pasti induce irritabilità. Ho saltato il pasto. Dunque sono irritabile.
C) Tutti i dentisti hanno una bella dentatura. Sara ha una bella dentatura, quindi è una dentista.

035. Quali lettere non inserirebbe al posto degli spazi per ottenere una parola di senso compiuto ed uso corrente?
T_P_.
A) I - I. **B)** O - O. **C)** E - I.

036. Prima di visitare il Monferrato ho visitato la Maremma, ma prima di visitare la Maremma ho visitato la Val d'Aosta. Dopo aver visitato la Val d'Aosta ho visitato l'Alto Adige, ma prima di visitare l'Alto Adige ho visitato il Monferrato. In quale ordine le quattro regioni sono state visitate da me?
A) Il Monferrato, la Maremma, la Val d'Aosta, l'Alto Adige.
B) La Val d'Aosta, la Maremma, il Monferrato, l'Alto Adige.
C) L'Alto Adige, la Val d'Aosta, la Maremma, il Monferrato.

037. In quale coppia, tra quelle proposte, i due vocaboli sono collegati da un rapporto di inclusione?
A) Cracovia, Ucraina.
B) Varsavia, Polonia.
C) Varsavia, Cracovia.

038. Trovare il termine intruso tra quelli proposti.
A) Deltoide. **B)** Fovea. **C)** Trapezio.

039. In quali dei seguenti punti i termini sono proposti nell’ordine NOME/VERBO/AGGETTIVO/AVVERBIO?
A) Quiete/Mantenersi/Elegante/Stortamente.
B) Noioso/Inumidire/Uggioso/Turgidamente.
C) Pinguedine/Perpetuare/Sconcezza/Stoicamente.

040. Individuare il gruppo di numeri che risulti esattamente il contrario della seguente base: 020119710209199212.
A) 219291902017911020.
B) 212991902017911020.
C) 212991920017911020.

041. Quale, tra le seguenti serie di numeri, non presenta errori di battitura rispetto alla seguente sequenza?
0784604706/3 – 530035 - 954534454.
A) 0784604703/3 - 530035 - 954534452.
B) 0785604706/3 - 530033 - 954534454.
C) 0784604706/3 – 530035 - 954534454.

042. In quale dei seguenti gruppi il numero 8 non segue immediatamente il 2 e il numero 0 non precede immediatamente il 4?
A) 020248282008804424404228 8.
B) 020248282008804424402482 8.
C) 082024822008802424402482 0.

043. In quale riga è presente la seguente sequenza: MRRRRRM?
A) RMRRRMRRRRMRMRRRR.
B) MRRRRRRRMMRRRRRMR.
C) RRRRRMRMRRRMRRRRM.

044. Qual è il totale di "cavalli" presenti nelle due tabelle? Quanti "pesci" sono presenti rispettivamente nella prima e nella seconda tabella?

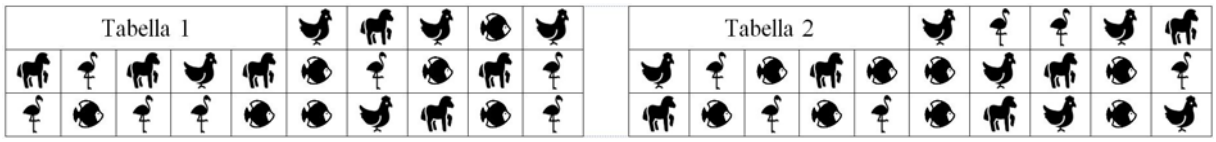

A) 10. Nella tabella 1 sono presenti 7 "pesci", nella tabella 2 sono presenti 8 "pesci".
B) 11. Nella tabella 1 sono presenti 7 "pesci", nella tabella 2 sono presenti 8 "pesci".
C) 11. In entrambe le tabelle sono presenti 7 "pesci".

045. Se la sequenza è "maiuscolo-maiuscolo-minuscolo-maiuscolo", quale stringa è scritta in modo corretto?
A) "QSbSUGcSDSuSDUbfBApL".
B) "SPuGLNdiAGsDMPuUMBoF".
C) "SGuGDPsSGNhBEPbPLPoU".

Osservare la figura e rispondere alle seguenti 2 domande. (046 - 047)

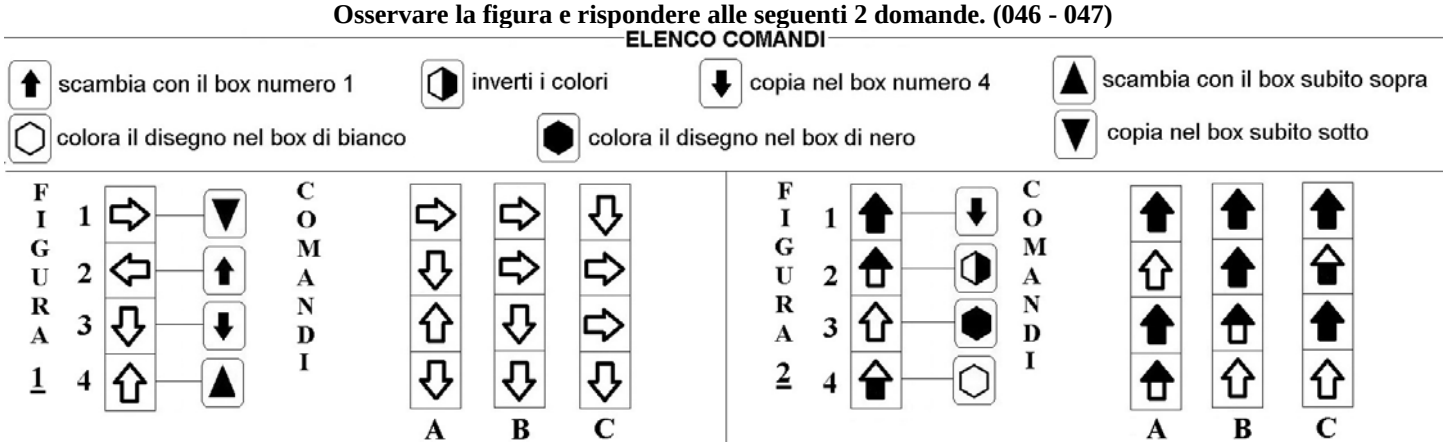

046. Quale figura si ottiene applicando alla FIGURA 2 i COMANDI a lato?
A) La figura C. **B)** La figura B. **C)** La figura A.

047. Quale figura si ottiene applicando alla FIGURA 1 i COMANDI a lato?
A) La figura B. **B)** La figura A. **C)** La figura C.

048. In quale dei seguenti quadrati è proposto il disegno 1, dopo essere stato ruotato e ribaltato?

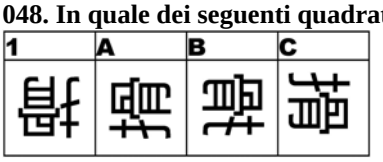

A) Nel quadrato C.
B) Nel quadrato A.
C) Nel quadrato B.

049. Quale delle figure proposte completa la serie?

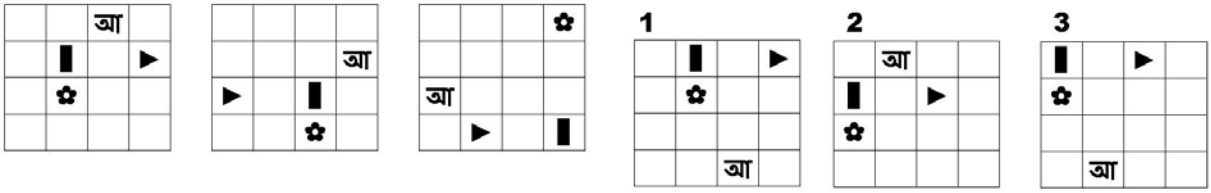

A) La figura 2. **B)** La figura 1. **C)** La figura 3.

050. Quale delle figure proposte completa la serie ?

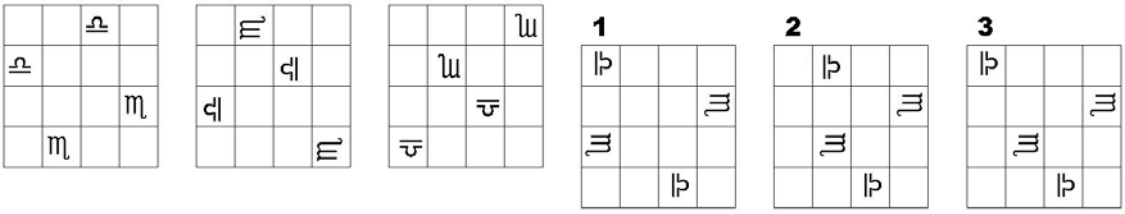

A) La figura 1. **B)** La figura 2. **C)** La figura 3.